中1　空間図形_動画学習

立体の名前

立体の部品

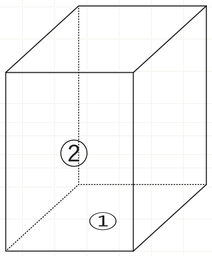

①の名前を ＿＿＿＿＿＿

②の名前を ＿＿＿＿＿＿

①の図形の底面の名前は ＿＿＿＿＿＿

立体の名称ルール

頂点がない場合 ○○ 柱

頂点がある場合 ○○ 錐

○○ には底面の名前が入ります

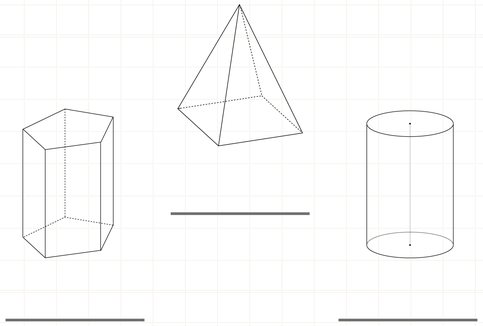

問題①

ア.底面の名前・イ.側面の名前・立体の名前を答えてください。

①

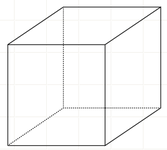

ア

イ

立体

②

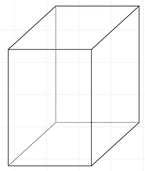

ア

イ

立体

③

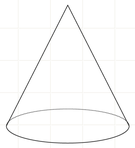

ア

イ

立体

問題②

以下の立体の名称を答えてください。

①

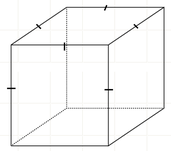

②

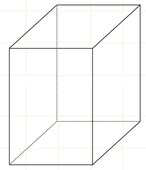

③

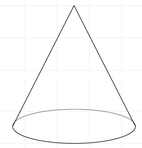

④

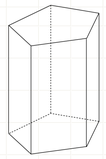

⑤

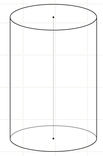

⑥

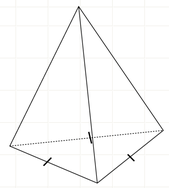

問題③

以下の問いに答えてください。

ア

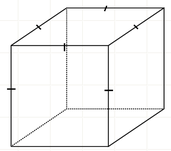

イ

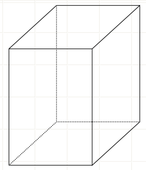

ウ

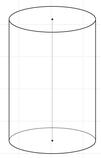

①イの側面の名称を答えてください。

②側面が**曲面**の図形を答えてください。

③平面だけで囲まれている図形を答えてください。

中1　空間図形_練習問題

立体の名前

問題①　ア.底面の名前・イ.側面の名前・立体の名前を答えてください。

①

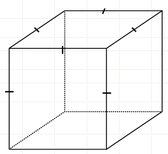

ア

イ

立体

②

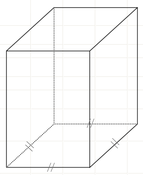

ア

イ

立体

③

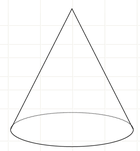

ア

イ

立体

④

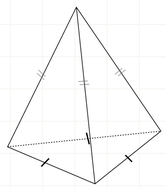

ア

イ

立体

⑤

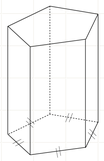

ア

イ

立体

⑥

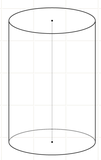

ア

イ

立体

問題②　以下の問いに答えてください。



（1）左の図形の名称を答えてください。

（2）側面の図形はどのような図形になりますか？

（3）側面は平面ですか？曲面ですか？

問題③　以下の問いに答えてください。

ア

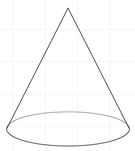

イ

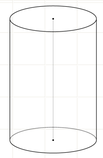

ウ

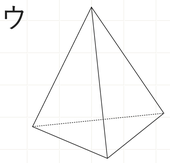

①錐体を全て選んでください。

②側面が**曲面**の図形を答えてください。

③平面だけで囲まれている図形を答えてください。

中1　空間図形_確認テスト

目標解答時間12分

50点

立体の名前

確認テスト①　以下の問いに答えてください。

ア

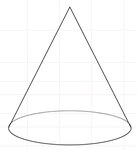

イ

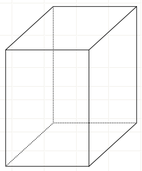

ウ

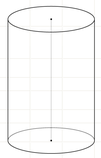

①錐体を全て選んでください。

（10点）

②側面が**曲面**の図形を答えてください。

（10点）

③平面だけで囲まれている図形を答えてください。

（10点）

確認テスト②　図形の名称を答えてください。

①

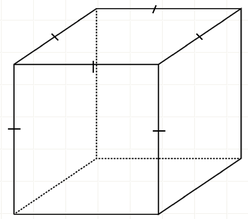

（10点）

②

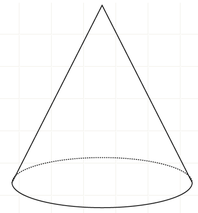

（10点）

ここからは＋アルファ問題です。

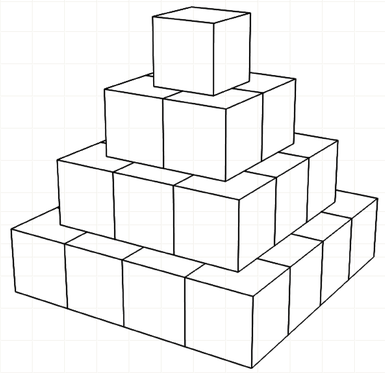

左の図は立方体を積み木のように積み上げた図形です。

立方体は何個あるでしょうか？